Sveučilište u Zagrebu
Arhitektonski fakultet
srpanj 2025.

Dodatna provjera znanja, vještina i sposobnosti
Test 2:
Provjera opće kulture

Upute i napomene pristupnicima:
Listove sa zadacima možete koristiti za bilježenje rješenja: oni se neće ispravljati niti bodovati. Pažljivo čitajte upute uz svaki zadatak jer se zadaci različito rješavaju.
Kada ste gotovi, odgovore i rješenja označite na **LISTU ZA ODGOVORE** na predviđenom mjestu, na primjer:

Zadatak 0 5 bodova

A	~~B~~	C	D

Zadatak 0 5 bodova

ČITKO UPISANI ODGOVOR

Na LISTU ZA ODGOVORE koristite kemijsku olovku, obavezno ispunite odgovore na sva pitanja i nemojte ispravljati odgovore. Osim odgovora na pitanja, LISTOVI ZA ODGOVORE ne smiju sadržavati druge bilješke ili skice. U suprotnom se neće priznavati bodovi.
Uza svaki zadatak naznačen je ukupan bodova za točno riješen cijeli zadatak. U testu nema negativnih bodova.
Maksimalan broj bodova: 200
Trajanje: 60 minuta

Zadatak 1 **4** boda

Na fotografijama su prikazani listovi različitih vrsta listopadnog drveća. Prema obliku lista prepoznajte kojem stablu pripadaju.

A hrast
B bukva
C javor
D smokva



1 2 3 4

Povežite slova s brojevima i odgovarajuće parove upišite na listu za odgovore.

Zadatak 2 **2** boda

"Kako dolazimo do znanja?" te "Kako možemo opravdati naše tvrdnje?" neka su od središnjih pitanja filozofske discipline koja se bavi prirodom i dosegom znanja, razmatrajući odnose između znanja, istine, vjerovanja i opravdanja. O kojoj je grani filozofije riječ?

A ontologija
B epistemologija
C fenomenologija
D kozmologija

Slovo uz točan odgovor označite na listu za odgovore.

Zadatak 3 **4** boda

Godine 1919. u Weimaru osnovana je glasovita škola za arhitekturu i primijenjeno oblikovanje s idejom ostvarivanja jedinstva likovnih umjetnosti pod okriljem arhitekture. Djelovala je do 1933., a vodili su je Walter Gropius, Hannes Meyer i Ludwig Mies van der Rohe. Usprkos relativno kratkom razdoblju djelovanja, škola je imala presudan utjecaj na arhitekturu i dizajn 20. stoljeća, a njezine su ideje ugrađene u obrazovne programe brojnih arhitektonskih škola. Kako se zvala ta škola?

Odgovor čitko upišite u za to predviđeno mjesto na listu za odgovore.

Zadatak 4 **4** boda

Koja od navedenih cesta nije izgrađena u doba Habsburške Monarhije na prostoru današnje Republike Hrvatske?

A Jozefina
B Karolina
C Lujzijana
D Dalmatina

Slovo uz točan odgovor označite na listu za odgovore.

Zadatak 5 **8** bodova

Fotografije snimljene iz zraka prikazuju karakteristične urbane segmente četiriju svjetskih gradova. Njihovu fizionomiju — raspored ulica, gustoću i tip izgradnje — oblikovale su različite geografske, političke, kulturološke i ekonomske datosti, kao i specifične urbane politike. Rezultati su raznovrsni: višenamjenska blokovska struktura, funkcionalistički modernistički sustav, heterogena izgradnja visoke gustoće, neformalne i spontano razvijene favele. Povežite fotografije s gradom kojem pripada prikazani urbani isječak.

A Brasília
B Tokyo
C Barcelona
D Rio de Janeiro



1



2



3



4

Povežite slova s brojevima i odgovarajuće parove upišite na listu za odgovore.

Zadatak 6 **4** boda

Povežite mjernu jedinicu za površinu s njezinom vrijednošću izraženom u metrima kvadratnim.

A 1 ar
B 1 jutro
C 1 hektar
D 1 akar

1 100 m²
2 10000 m²
3 5754 m²
4 4047 m²

Povežite slova s brojevima i odgovarajuće parove upišite na listu za odgovore.

Zadatak 7 **8** bodova

Na fotografijama su prikazane ikoničke gradske ulice iz različitih svjetskih metropola. Povežite naziv ulice s odgovarajućom fotografijom.



1



2



3



4

A Avenue des Champs-Élysées
B Via della Conciliazione
C Unter den Linden
D Fifth Avenue

Povežite slova s brojevima i odgovarajuće parove upišite na listu za odgovore.

Zadatak 8 **2** boda

Tko od navedenih nije dobio Nobelovu nagradu za mir?

A Barack Obama
B Nelson Mandela
C Mihail Sergejevič Gorbačov
D Mahatma Gandhi

Slovo uz točan odgovor označite na listu za odgovore.

Zadatak 9 **4** boda

Povežite književna djela s gradovima u kojima se odvija njihova radnja.

A Novela od Stanca, Marin Držić
B Zlatarevo zlato, August Šenoa
C Vježbanje života, Nedjeljko Fabrio
D Posljednji Stipančići, Vjenceslav Novak

1 Rijeka
2 Zagreb
3 Dubrovnik
4 Senj

Povežite slova s brojevima i odgovarajuće parove upišite na listu za odgovore.

Zadatak 10 **2** boda

Tko je 267. poglavar Rimokatoličke Crkve?

A Franjo II.
B Ivan Pavao III.
C Benedikt XVII.
D Lav XIV.

Slovo uz točan odgovor označite na listu za odgovore.

Zadatak 11 **2** boda

Kojim je mirovnim ugovorom okončan Prvi svjetski rat?

A Rapallski ugovor
B Versailleski ugovor
C Potsdamski sporazum
D Daytonski sporazum

Slovo uz točan odgovor označite na listu za odgovore.

Zadatak 12 **2** boda

Atmosfera je plinoviti omotač oko Zemlje koji se sastoji od više slojeva. Poredajte navedene slojeve Zemljine atmosfere od onog najbližeg Zemljinoj površini prema vanjskim slojevima.

A Egzosfera
B Stratosfera
C Troposfera
D Termosfera

Redoslijed slova upišite u za to predviđeno mjesto na listu za odgovore.

Zadatak 13 **8** bodova

Na reprodukcijama se nalaze vedute gradova poznatih slikara. Povežite vedutu s gradom koji prikazuje.

A London
B Delft
C Pariz
D Venecija


1 Giovanni Antonio Canal


2 Camille Pissarro


3 Claude Monet


4 Johannes Vermeer

Povežite slova s brojevima i odgovarajuće parove upišite na listu za odgovore.

Zadatak 14 **2** boda

Tko je napisao epski roman “Rat i mir”?

A Fjodor Dostojevski
B Lav Tolstoj
C Anton Čehov
D Ivan Turgenjev

Slovo uz točan odgovor označite na listu za odgovore.

Zadatak 15 **4** boda

Koja od navedenih građevina nema kupolu?

A Vila Rotonda, Vicenza
B Santa Maria della Salute, Venecija
C San Vitale, Ravenna
D Partenon, Atena

Slovo uz točan odgovor označite na listu za odgovore.

Zadatak 16 **2** boda

U glazbenoj terminologiji tempo označava brzinu izvođenja glazbenog djela. U nastavku su navedene česte oznake tempa. Poredaj ih od najbrže prema najsporijoj:

A Andante
B Largo
C Allegro
D Adagio

Redoslijed slova upišite u za to predviđeno mjesto na listu za odgovore.

Zadatak 17 **4** boda

Skeletni konstruktivni sustav, nenosivi pregradni zidovi i nenosiva fasada neki su od elemenata koji omogućuju specifičan oblik prostorne organizacije karakterističan za modernističku arhitekturu, a nazvana je – plan libre. Koji od ponuđenih tlocrta možemo povezati s ovim pojmom?

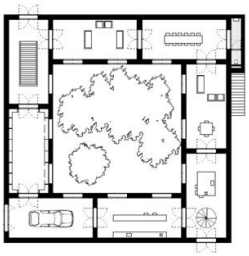
A

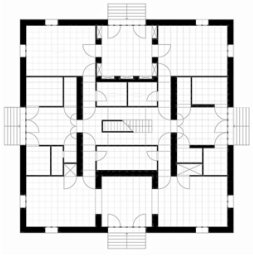
B

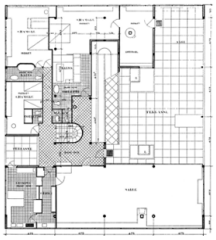
C


D

Slovo uz točan odgovor označite na listu za odgovore.

Zadatak 18 **2** boda

Papa Julije II. naručio je 1508. godine oslikavanje svoda Sikstinske kapele, koji obuhvaća površinu od gotovo 800 četvornih metara. Na njemu su prikazani prizori iz Knjige Postanka, uključujući stvaranje svijeta, čovjeka i izgon iz raja, a djelo se smatra jednim od vrhunaca renesansnog fresko slikarstva. Tko je oslikao svod Sikstinske kapele?



Odgovor čitko upišite u za to predviđeno mjesto na listu za odgovore.

Zadatak 19 **4** boda

Povežite olimpijski sport sa standardnim dimenzijama njegovog igrališta.

A badminton
B košarka
C nogomet
D rukomet

1 13,4 × 6,1 m
2 105 m × 68 m
3 40 × 20 m
4 28 × 15 m

Povežite slova s brojevima i odgovarajuće parove upišite na listu za odgovore.

Zadatak 20 **2** boda

Na povijesnim građevinama često se nalaze epigrafski natpisi iz kojih možemo saznati razne korisne i zanimljive informacije. Fotografija ispred vas prikazuje kamenu ploču s natpisom koja se nalazi iznad ulaza u Domus Christi, povijesno dubrovačko zaklonište za starije i nemoćne osobe, javnu ustanovu koja kontinuirano djeluje na istoj lokaciji od svog osnutka do danas. Godinu osnutka *hospicija*, zabilježenu u trećem retku natpisa napišite arapskim brojevima.



Odgovor čitko upišite u za to predviđeno mjesto na listu za odgovore.

Zadatak 21 **2** boda

Poredajte sljedeće političke zajednice prema broju stanovnika, od najveće prema najmanjoj.

A Europska unija
B Sjedinjene Američke Države
C Indija
D Rusija

Redoslijed slova upišite u za to predviđeno mjesto na listu za odgovore.

Zadatak 22 **2** boda

Koja od navedenih država nije članica NATO saveza?

A Finska
B Turska
C Austrija
D Portugal

Slovo uz točan odgovor označite na listu za odgovore.

Zadatak 23 **2** boda

Koji od navedenih političkih pojmova označava stav koji naglašava individualne slobode, minimalnu ulogu države u životu pojedinca, slobodno tržište i ograničenu vlast?

A etatizam
B suverenizam
C liberalizam
D anarhizam

Slovo uz točan odgovor označite na listu za odgovore.

Zadatak 24 **2** boda

Film "Čovjek koji nije mogao šutjeti" redatelja Nebojše Slijepčevića nominiran je za Oscara 2024. u kategoriji:

A dokumentarni film
B kratkometražni igrani film
C animirani film
D strani film

Slovo uz točan odgovor označite na listu za odgovore.

Zadatak 25 **4** boda

Na gradnji Šibenske katedrale sv. Jakova, danas uvrštene na Popis svjetske baštine UNESCO-a, tijekom stoljeća radili su brojni majstori. Međutim, koji od navedenih umjetnika NIJE sudjelovao u njezinoj gradnji?

A Georgius Mathei Dalmaticus
B Niccolo di Giovanni Fiorentino
C Bonino da Milano
D Giulio Clovio

Slovo uz točan odgovor označite na listu za odgovore.

Zadatak 26 **4** boda

Le Corbusier je 1925. godine na Izložbi dekorativnih umjetnosti predstavio svoj vizionarski urbanistički projekt pod nazivom – *Plan Voisin*. Projektom dominira osamnaest staklenih nebodera ravnomjerno raspoređenih unutar prostranih parkova i mreže širokih prometnica. Plan je uključivao jasno zoniranje prostora – odvajanje funkcija stanovanja, rada, prometa i rekreacije – u skladu s modernističkim načelima funkcionalnog grada.
Za koji je grad bio izrađen ovaj plan?

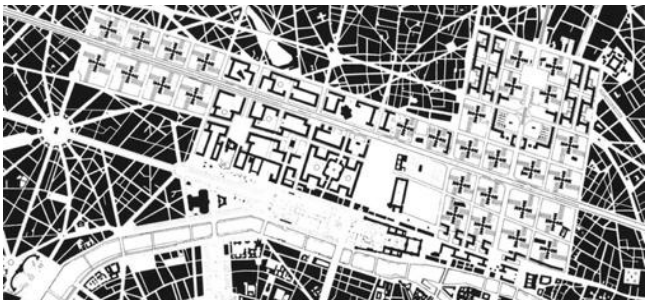

Odgovor čitko upišite u za to predviđeno mjesto na listu za odgovore.

Zadatak 27 **4** boda

U arhitekturi, mnogi se proračuni i odnosi temelje na zakonitostima koje proizlaze iz matematike i fizike. Pritom važnu ulogu imaju konstante — brojevi čija je vrijednost nepromjenjiva i univerzalna. One se koriste u opisivanju proporcija, statičkih proračuna, ali i razumijevanju prostornih i konstruktivnih sustava. Povežite navede konstante s njihovim vrijednostima.

A Pi (π)
B Gravitacijska konstanta (G)
C Brzina svjetlosti (c)
D Gravitacijsko ubrzanje (g)

1 3,14159...
2 299,792,458 m/s
3 6,674 × 10−11 N·m2/kg2
4 9,81 m/s²

Povežite slova s brojevima i odgovarajuće parove upišite na listu za odgovore.

Zadatak 28 **2** boda

Grafičke tehnike omogućuju višestruko umnažanje vizualnih prikaza na osnovi unaprijed pripremljenog predloška ili matrice. Zahvaljujući tome, grafika je tijekom povijesti pridonijela bržem i jednostavnijem širenju ideja, informacija i umjetničkih sadržaja, čineći ih dostupnijima široj publici. Koji od navedenih pojmova ne označava grafičku tehniku?

A litografija
B linorez
C sitotisak
D enkaustika

Slovo uz točan odgovor označite na listu za odgovore.

Zadatak 29 **4** boda

Poznavanje povijesnih država i njihovih teritorijalnih granica važno je za razumijevanje političkih, kulturnih i društvenih odnosa koji su oblikovali europski prostor tijekom različitih povijesnih razdoblja. Na slijepim kartama označene su četiri povijesne države, prepoznajte ih i povežite s njihovim nazivom.

A Austro-Ugarska Monarhija
B Čehoslovačka
C Zapadna Njemačka
D Prusija

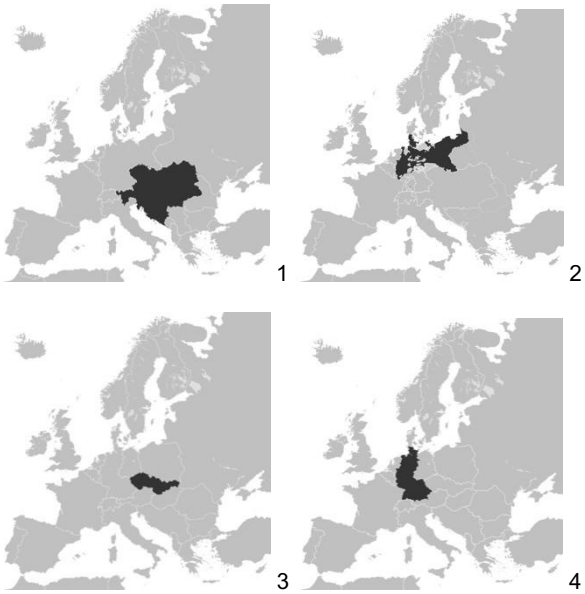

Povežite slova s brojevima i odgovarajuće parove upišite na listu za odgovore.

Zadatak 30 **4** boda

Na prikazima su presjeci građevina s kupolama koje nadsvođuju centralni prostor, a potječu iz različitih povijesnih razdoblja.
Poredajte ih po vremenu izgradnje počevši od kronološki najstarije.


A Aja Sofija

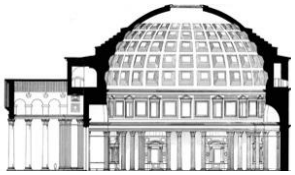
B Panteon


C Kapela Pazzi

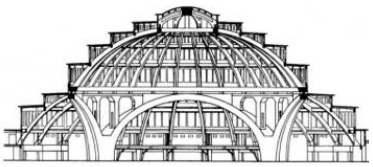
D Jahrhunderthalle

Redoslijed slova upišite u za to predviđeno mjesto na listu za odgovore.

Zadatak 31 **4** boda

Ikoničke stolice poznatih dizajnera nerijetko se pojavljuju u serijama, političkim i inim emisijama – na našim malim ekranima. Svojim prepoznatljivim oblikom mnoge su postale dijelom popularne kulture, a možemo ih uočiti u filmovima, reklamama, glazbenim spotovima i drugim vizualnim medijima. Prepoznajte stolice iz kadra.



1



2



3



4

A Hans Wegner
B Konstantin Grcic
C Charles i Ray Eames
D Ludwig Mies van der Rohe i Lilly Reich

Povežite slova s brojevima i odgovarajuće parove upišite na listu za odgovore.

Zadatak 32 **4** boda

Neki se pojmovi često koriste u arhitekturi pri definiranju i/ili opisivanju prostornih odnosa među elementima građevine ili sklopa. Povežite navedene pojmove s njihovim opisom.

A adicija
B repeticija
C superpozicija
D jukstapozicija

1 Dodavanje novog elementa postojećoj strukturi.
2 Preklapanje više elemenata koji zajedno čine cjelinu.
3 Ponavljanje istih ili sličnih elemenata.
4 Postavljanje različitih elemenata jedan uz drugi ili jedan naspram drugog radi isticanja njihova međuodnosa.

Povežite slova s brojevima i odgovarajuće parove upišite na listu za odgovore.

Zadatak 33 **2** boda

Koji od navedenih lučkih gradova se nalazi na samom moru i do njegove luke nije potrebna duža plovidba rijekom?

A Hamburg
B Marseille
C Antwerpen
D Montreal

Slovo uz točan odgovor označite na listu za odgovore.

Zadatak 34 **4** boda

Ljudsko je tijelo tijekom povijesti često bilo skulptorska tema, a estetski kanoni i konvencije prikaza mijenjali su se ovisno o povijesnim razdobljima i svjetonazorima. Prepoznajte iz kojeg povijesno-stilskog razdoblja potječu sljedeći primjeri.



1 2 3 4

A antika
B klasicizam
C gotika
D egejska umjetnost

Povežite slova s brojevima i odgovarajuće parove upišite na listu za odgovore.

Zadatak 35 **4** boda

U kojem od navedenih gradova ne nalazimo gotičku katedralu:

A Pariz
B Strasbourg
C Madrid
D Beč

Slovo uz točan odgovor označite na listu za odgovore.

Zadatak 36 **2** boda

U studenom 2024. godine, zbog neadekvatne rekonstrukcije zgrade došlo je do urušavanja nadstrešnice na glavnom željezničkom kolodvoru u Novom Sadu, pri čemu je život izgubilo 16 osoba. Za ovu tragediju nitko nije preuzeo odgovornost, što je potaknulo val ogorčenja u javnosti. Kao reakciju, studenti su pokrenuli masovne prosvjede diljem Srbije, koji su ubrzo prerasli u najveće demonstracije u zemlji u posljednjih 20 godina. U svrhu optužbe vlasti za nasilje, političku korupciju i uskraćivanje demokracije, korišten je upečatljiv vizualni simbol koji prikazuje:

A podignutu šaku
B srp i čekić
C goluba mira
D crveni otisak dlana

Slovo uz točan odgovor označite na listu za odgovore.

Zadatak 37 **2** boda

Koja od sljedećih organizacija je poznata po radikalnim kampanjama za prava životinja?



A MoMA
B PETA
C Greenpeace
D UNICEF

Slovo uz točan odgovor označite na listu za odgovore.

Zadatak 38 **2** boda

Godine 2024., u jednom od najvrjednijih prirodnih područja Hrvatske, građani, aktivisti i ekolozi organizirali su val prosvjeda, peticija i pravnih inicijativa kako bi spriječili izgradnju hidroelektrane. Njihova borba istaknula je važnost očuvanja bioraznolikosti i kulturnog krajolika te postala simbol uspješnog građanskog otpora protiv uništavanja okoliša.
Koja je rijeka 2024. godine postala središte građanske borbe za zaštitu okoliša u Hrvatskoj, u kojoj su građani uspjeli zaustaviti gradnju hidroelektrane?

A Cetina
B Sava
C Neretva
D Una

Slovo uz točan odgovor označite na listu za odgovore.

Zadatak 39 **2** boda

U Lici se šutnja ne govori, ona se nosi kao teška jakna.

Književnik, autor ove rečenice preuzete iz romana *Proslava*, poznat je po škrtoj, ali prodornoj jezičnoj izražajnosti. Njegova proza propituje teme odrastanja, nasilja, straha i emocionalne šutnje. Lika za njega nije samo mjesto radnje, već simbol unutarnjih sukoba i duboke, tihe patnje. Roman *Proslava* iz 2019. godine dio je njegovog dosljednog književnog puta u kojem se glavni lik vraća iz inozemstva u rodnu Liku i suočava s obiteljskim naslijeđem, nerazriješenim odnosima i mračnim dijelovima vlastite prošlosti. Prema ovom romanu 2024. je snimljen istoimeni film koji je osvojio više prestižnih nagrada.
Kako se zove književnik, autor romana *Proslava*?

A Damir Karakaš
B Željko Špoljar aka Pavle Svirac
C Edo Popović
D Slobodan Novak

Slovo uz točan odgovor označite na listu za odgovore.

Zadatak 40 **2** boda

Jedan od najznačajnijih redatelja suvremenog europskog filma započeo je svoju karijeru progresivnim djelima poput *Alisa u gradovima* (1974.) i *Američki prijatelj* (1977.). Autorski vrhunac dosegao je introspektivnim i vizualno dojmljivim filmovima poput *Pariz, Texas* (1984.) i *Nebo nad Berlinom* (1987.), koji je scenaristički supotpisao s piscem Peterom Handkeom, dobitnikom Nobelove nagrade za književnost. Dokumentarni film *Pina* (2011.), snimljen u 3D tehnici, prostorna je posveta koreografkinji Pini Bausch.
Glazba je ključna sastavnica njegova filmskog stvaralaštva, pa je surađivao s iznimnim glazbenim umjetnicima kao što su Nick Cave, Blixa Bargeld, Laurie Anderson, Lou Reed, Ry Cooder i mnogi drugi. Za izuzetan doprinos filmskoj umjetnosti, Europska filmska akademija mu je 2024. godine dodijelila nagradu za životno djelo. Ime ovog redatelja je:

A Ingmar Bergman
B Lars von Trier
C Michael Haneke
D Wim Wenders

Slovo uz točan odgovor označite na listu za odgovore.

Zadatak 41 **2** boda

U hrvatskim kinima proteklih mjeseci prikazivao se film koji rekonstruira jednu od najneobičnijih epizoda hrvatske i europske povijesti. Kroz spoj dokumentarnih intervjua i dramatiziranih rekonstrukcija, film donosi priču o bizarnom, ali povijesno značajnom događaju – okupaciji Rijeke 1919.–1920. godine pod vodstvom ekscentričnog talijanskog vojnika-pjesnika, avanturista i nacionalističkog agitatora Gabrielea D'Annunzija. Film u režiji Igora Bezinovića u inovativnom, energičnom i ponešto ironičnom tonu propituje pitanja moći, nacionalizma i kolektivnog sjećanja.



Kako se zove navedeni film?

A Partigiano, sempre!
B Fiume o morte!
C Avanti o popolo!
D Forza Fiume!

Slovo uz točan odgovor označite na listu za odgovore.

Zadatak 42 **2** boda

Kako se zove novinar, osnivač WikiLeaksa, poznat po objavljivanju povjerljivih i inkriminirajućih dokumenata koji su razotkrili državne tajne i kontroverze? Njegov rad izazvao je globalne debate o slobodi medija, transparentnosti i nacionalnoj sigurnosti. Nakon što je proveo više od tri godine u zatvoru u Velikoj Britaniji, gdje je čekao odluku o izručenju Sjedinjenim Državama, nedavno je pušten na slobodu.

A Julian Assange
B Bernie Sanders
C Alexej Navalni
D Salman Rushdie

Slovo uz točan odgovor označite na listu za odgovore.

Zadatak 43 **2** boda

Bliski istok već je desetljećima poprište ratnih kriza i jedna je od politički najnestabilnijih globalnih regija. Recentna eskalacija sukoba u regiji je krajnje zabrinjavajuća a povod za ratna djelovanja, bar nominalno, izazvani su nuklearnim programom jedne zemlje. Ta zemlja je?

A Iran
B Irak
C Sjeverna Koreja
D Sirija

Slovo uz točan odgovor označite na listu za odgovore.

Zadatak 44 **2** boda

Kako se naziva pojam porijeklom iz psihoanalize koji označava verbalnu, pisanu ili činovnu pogrešku za koju se smatra da otkriva potisnute misli, osjećaje ili želje iz nesvjesnog?

A Stockholmski sindrom
B Freudova omaška
C Placebo efekt
D Edipov kompleks

Slovo uz točan odgovor označite na listu za odgovore.

Zadatak 45 **4** boda

Ove godine održani su jubilarni 25. Dani Orisa. Ta međunarodna konferencija u Zagreb i druge gradove u regiji dovela je brojne vodeće svjetske arhitekte, uključivo i mnoge dobitnike nagrade Pritzker. Tko je od ovogodišnjih predavača dobitnik nagrade Pritzker?

A Kazuyo Sejima/ SAANA
B Carme Pigem/ RCR
C Jette Hopp/ Snøhetta
D Dorte Mandrup

Slovo uz točan odgovor označite na listu za odgovore.

Zadatak 46 **4** boda

Naziv *Vitruvijev čovjek* potječe od talijanskog *L'Uomo Vitruviano*, a odnosi se na pojam proporcija ljudskog tijela prema zapisima rimskog arhitekta Marka Vitruvija (Marcus Vitruvius), autora znamenitog traktata *Deset knjiga o arhitekturi*. U trećoj knjizi, u poglavlju *O simetriji: u hramovima i u ljudskom tijelu*, Vitruvije raspravlja o sličnostima između arhitektonske i tjelesne proporcije kao izraza harmonije prirode. Gotovo petnaest stoljeća kasnije, renesansni slikar, u duhu humanističkog ideala, izrađuje crtež temeljen na Vitruvijevim zapisima, spajajući umjetnost, znanost i filozofiju. Kako se zove autor slavnog crteža *Vitruvijev čovjek*?

Odgovor čitko upišite u za to predviđeno mjesto na listu za odgovore.

Zadatak 47 **2** boda

Jedan je od ključnih protagonista Novog vala, kulturnog i glazbenog fenomena sedamdesetih i osamdesetih godina prošlog stoljeća u Zagrebu. Autor koji je ostavio je dubok trag na ovdašnjoj glazbenoj sceni, naročito kao *frontman* grupe Haustor, s pjesmama poput *Šal od svile*, *Moja prva ljubav* i *Ena*. U samostalnoj karijeri nastavlja glazbena istraživanja kroz poetiku i zvukove pjesama poput *Apokalipso*, *Ruke*. Za svoj doprinos kulturi i umjetnosti, dobitnik je Nagrade Grada Zagreba 2024. godine. Kako se zove ovaj istaknuti glazbenik?

A Branimir Johnny Štulić
B Massimo Savić
C Ivan Piko Stančić
D Darko Rundek

Slovo uz točan odgovor označite na listu za odgovore.

Zadatak 48 **2** boda

Švedska aktivistica koja je globalnu pažnju privukla svojom beskompromisnom kritikom političke pasivnosti prema klimatskoj krizi. Unatoč mladosti i zdravstvenim tegobama, njezina odlučnost u zagovaranju ekološke i društvene pravde izazvala je i divljenje i kritike diljem svijeta. Nedavno je uhićena i deportirana iz Izraela zbog pokušaja dostave humanitarne pomoći Gazi na jedrilici *Madleen*, što je izazvalo međunarodne reakcije i otvorilo raspravu o blokadi Gaze i ljudskim pravima. Kako se zove ova aktivistica, spremna na osobni rizik radi političkih i etičkih stavova?

Odgovor čitko upišite u za to predviđeno mjesto na listu za odgovore.

Zadatak 49 **4** boda

U periodu netom nakon drugog svjetskog rada, u Zagrebu se okuplja skupina umjetnika i arhitekata – Vjenceslav Richter, Bernardo Bernardi, Božidar Rašica, Zdravko Bregovac, Ivan Picelj, Aleksandar Srnec i Vlado Kristl – okupljena u okviru avangardne umjetničke grupe. Promicali su modernistička načela, umjetničku slobodu, apstrakciju i funkcionalnost kao sredstva društvenog progresa. Grupa je imala ključnu ulogu u redefiniranju odnosa između umjetnosti, društva i tehnologije, postavivši temelje razvoju suvremene umjetnosti i dizajna kakve poznajemo danas. Pod kojim imenom je djelovala ova grupa umjetnika?

A Nove tendencije
B Gorgona
C Zemlja
D EXAT 51

Slovo uz točan odgovor označite na listu za odgovore.

Zadatak 50 **4** boda

Naziv jednog od najpoznatijih performansa iz povijesti hrvatske umjetnosti *Zagreb volim te* postao je dio prijedloga vizualnog identiteta Grada Zagreba. Ovaj performans bio je radikalan čin osobnog i političkog izraza, izveden u javnom prostoru grada. Autor se njime upisao u povijest umjetnosti kao jedan od najprovokativnijih predstavnika avangardne scene druge polovice 20. stoljeća.



Tko je autor performansa *Zagreb volim te*?

A Tomislav Gotovac
B Ladislav Galeta
C Vladimir Dodig Trokut
D Siniša Labrović

Slovo uz točan odgovor označite na listu za odgovore.

Zadatak 51 **2** boda

Nedavno je preminuo jedan od osobito istaknutih hrvatskih glazbenika srednje generacije – pijanist koji je svojim virtuoznim djelovanjem obilježio suvremenu jazz scenu i ostavio snažan trag u glazbenoj kulturi regije. Potječe iz obitelji glazbenika, a odlikovala su ga iznimna tehnička vještina, suptilna muzikalnost i prepoznatljiv autorski izraz. Njegove interpretacije klasičnih i popularnih tema bile su duboko osobne, prožete lirizmom i kreativnom slobodom, često na granici između skladane forme i improvizacije.
O kojem se glazbeniku radi?

Odgovor čitko upišite u za to predviđeno mjesto na listu za odgovore.

Zadatak 52 **4** boda

Otvorenje Olimpijskih igara 2024. godine pretvorilo je Pariz u grandioznu živu pozornicu na kojoj se isprepliću povijest, moda i umjetnost. Ceremonija niz rijeku Sienu oživjela je povijesne simbole Francuske, gradeći narativ o povezanosti tradicije, grada i suvremenog društva. U nizu dojmljivih inscenacija i performansa, mezzosopranistica Axelle Saint-Cirel izvela je *La Marseillaise* na krovu zgrade s monumentalnom staklenom kupolom i željeznom konstrukcijom, arhitektonskim remek-djelom izgrađenim za Svjetsku izložbu 1900. godine. Tijekom samih Igara u tom su se prostoru održavala natjecanja u disciplinama poput mačevanja i taekwondoa.



O kojoj je građevini riječ?

A Eiffelov toranj
B Palais de Tokyo
C Notre Dame de Paris
D Grand Palais

Slovo uz točan odgovor označite na listu za odgovore.

Zadatak 53 **2** boda

Uslijed globalnih okolnosti, broj dnevnih korisnika na Zoom-u je skočio s 10 mil. u 12. mjesecu na 300 mil. u 6. mjesecu, što je porast od trideset puta. U kojoj godini se desio taj dramatični skok?

Na crti za odgovor napišite godinu.

Zadatak 54 **4** boda

Ikonična glazbena događanja obilježila su svoje epohe, njihove vodeće interese i fokuse problema. Povežite glazbeno događanje i vodeće izvođače s dekadom u kojoj su se dogodile.

A Coachella (prvo izdanje), anti-korporativno organiziranje / Beck, The Chemical Brothers, Rage Against the Machine…
B Live Aid – pomoć zemljama 3. svijeta i borba protiv gladi / U2, Duran Duran, Madonna…
C One World: Together at Home, pandemijska kriza / Global Citizen, Taylor Swift, Lady Gaga…
D Woodstock – dekada ljubavi / Jimmy Hendrix, Janis Joplin & the Kozmic Blues Band, The Who…

1 1960-te
2 1980-te
3 1990-te
4 2020-te

Povežite slova s brojevima i odgovarajuće parove upišite na listu za odgovore.

Zadatak 55 **4** boda

Naši životi snažno su prožeti digitalnim tehnologijama. Povežite pojavu novih digitalnih tehnologija s dekadama u kojima su one postale dio svakodnevice.

A 1990-te
B 2000-te
C 2010-te
D 2020-te

1 Streaming-video na zahtjev
2 World Wide Web + preglednik
3 Generativna AI
4 Pametni telefon

Povežite slova s brojevima i odgovarajuće parove upišite na listu za odgovore.

Zadatak 56 **4** boda

Danas sve više vodeći glasovi u arhitekturi nisu samo istaknuti pojedinci, nego i uredi koji stvaraju "kolektivnu kreativnost". Osnivači ureda ostaju eksponirani, no njihove doprinose treba sagledavati unutar radnog konteksta koje su izgradili i gdje ured nije samo "razrađivač ideja" nego think-tank. Povežite imena znamenitih arhitekata s njihovim uredima.

A Alejandro Aravena
B Winny Maas
C Rem Koolhaas
D Bjarke Ingels

1 MVRDV
2 OMA/AMO
3 Elemental
4 Big

Povežite slova s brojevima i odgovarajuće parove upišite na listu za odgovore.

Zadatak 57 **8** bodova

Krajem 20. i početkom 21. stoljeća došlo je do širenja takozvanih ikoničkih zgrada koje su zbog svojih formalnih karakteristika postale ključan dio identiteta institucija, gradova i država za koje su izgrađene. Neke od tih ikoničkih i često vrlo skupih zgrada su projektirane primarno u službu spektakla, no pojedini primjeri su vrijedni doprinosi arhitektonskoj kulturi i javnoj domeni. Povežite autore i imena ikoničkih zgrada s njihovim fotografijama.

A Rem Koolhaas / OMA: Seattle Public Library
B Jean Nouvel: Louvre Abu Dhabi
C Snøhetta: Opera Oslo
D Zaha Hadid / ZHA: MAXXI, Rim



1



2



3



4

Povežite slova s brojevima i odgovarajuće parove upišite na listu za odgovore.

Zadatak 58 **2** boda

U seriji recentnih političkih poteza, američki predsjednik Donald Trump izazvao je međunarodnu pažnju izjavom da bi Sjedinjene Američke Države mogle “kupiti” Grenland. Radi se o golemom geografskom teritoriju površine oko 2,16 milijuna četvornih kilometara koji uživa široku političku i administrativnu autonomiju a formalno pripada Kraljevini Danskoj. Koliko stanovnika trenutačno živi na Grenlandu?

A oko 50 000
B oko 150 000
C oko 500 000
D oko 1 500 000

Slovo uz točan odgovor označite na listu za odgovore.

Zadatak 59 **2** boda

Jedan grad u Hrvatskoj nazivan je i “crvenom utvrdom” jer je poziciju gradonačelnika i najveći broj zastupnika u Gradskoj skupštini držao SDP. Nakon lokalnih izbora 2025., po prvi puta to više nije slučaj. Taj grad je:

A Rijeka
B Šibenik
C Osijek
D Zagreb

Slovo uz točan odgovor označite na listu za odgovore.

Zadatak 60 **4** boda

Hrvatski paviljon na aktualnom arhitektonskom Bijenalu u Veneciji 2025. nosi naslov “Inteligencija grešaka.” Paviljon prikazuje i sistematizira razna odstupanja od normi u izgrađenom okolišu kako bi uputio na njihov potencijal za stvaranje stvaranje novih prostornih rješenja. Tko je povjerenik hrvatskog paviljona?

A Ida Križaj Leko
B Mia Roth Čerina, Tonči Čerina
C Idis Turato
D Bruno Jurčić

Slovo uz točan odgovor označite na listu za odgovore.

Zadatak 61 **2** boda

Na Sljemenu su se od 2005. do 2023. održavale utrke svjetskog kupa u alpskom skijanju, no zbog oštećenja žičare taj je kontinuiteti prekinut, a njezina obnova tek predstoji. Hrvatska nema niti jedno veće skijalište, no redovito ima dobre skijaše koji postižu i značajne međunarodne uspjehe. Ove godine senzacionalni uspjeh ostvarila je alpska skijašica iz Zagreba koja je osvojila mali Kristalni globus Svjetskog kupa, kao najbolja u slalomašica sezone. Njeno ime je?

A Donna Vekić
B Sandra Perković
C Zrinka Ljutić
D Matea Jelić

Slovo uz točan odgovor označite na listu za odgovore.

Zadatak 62 **2** boda

Neto-imovina najbogatijih ljudi na svijetu danas zna varirati i desecima milijardi dolara u jednom danu što pokazuje “papirnatost” tih iznosa. Prema podacima za lipanj 2025., najbogatija osoba na svijetu je:

A Warren Buffett
B Elon Musk
C Mark Zuckerberg
D Bill Gates

Slovo uz točan odgovor označite na listu za odgovore.